Решение задач в 3 действия

Подготовла: Габриелян М.Э.,
Учитель начальных классов

Актуализация знаний

1.Прямоугольник, у которого все стороны равны

2.36:9

3.48:8

4.Во сколько раз 100 больше 10 ?

5.У квадрата все стороны …

6.Греческий философ, его именем названа таблица умножения.

7.Чтобы узнать, на сколько больше или меньше одно число другого, надо….

8.Прямая, ограниченная с двух концов точками.

9.В выражениях, имеющих скобки, сначала выполняем действия …

10.Чтобы узнать, во сколько раз одно число больше или меньше другого, надо…

11.Во сколько раз 50 больше 25?

12.Сколько углов у прямоугольника?

Счёт "цепочкой"

$63 : 7 \cdot 2 - 6 : 3 \cdot 8 : 4 = 8$

$80 - 40 : 8 \cdot 4 - 2 : 2 \cdot 8 = 72$

В книге поместили 24 стихотворения и 8 рассказов. Во сколько раз в книге стихотворений больше, чем рассказов?

в 16 раз

в 3 раза

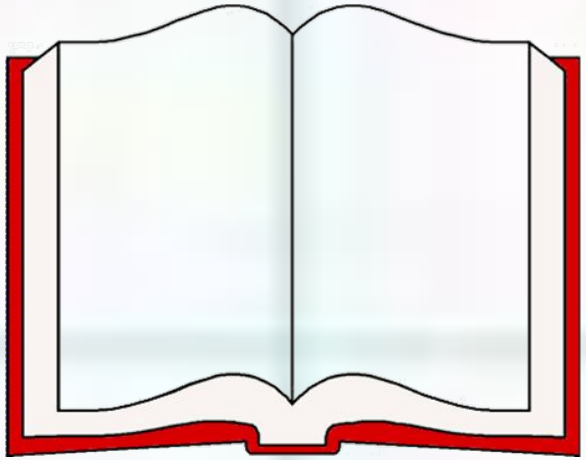

в 4 раза

в 32 раза

В книге поместили 24 стихотворения и 8 рассказов. На сколько в этой книге стихотворений больше, чем рассказов?

на 16

на 3

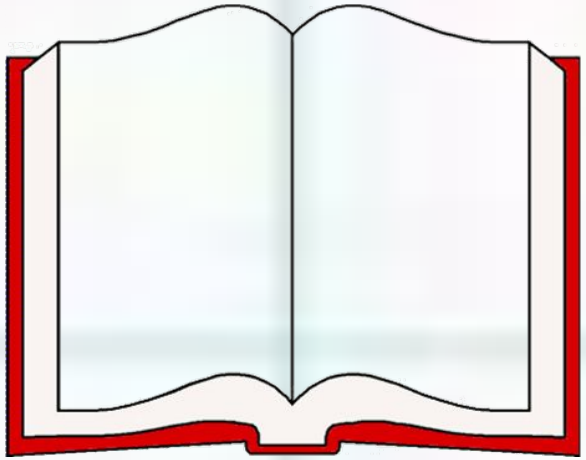

на 4

на 32

На первой полке было 27 книг, на второй полке – в 3 раза меньше, чем на первой. Сколько книг на второй полке?



8 книг

24 книги

9 книг

30 книг

На первой полке было 27 книг, на второй полке – в 3 раза меньше, чем на первой. Сколько книг на двух полках?



57 книг

36 книг

9 книг

30 книг

Составь задачу по схеме и запиши решение.

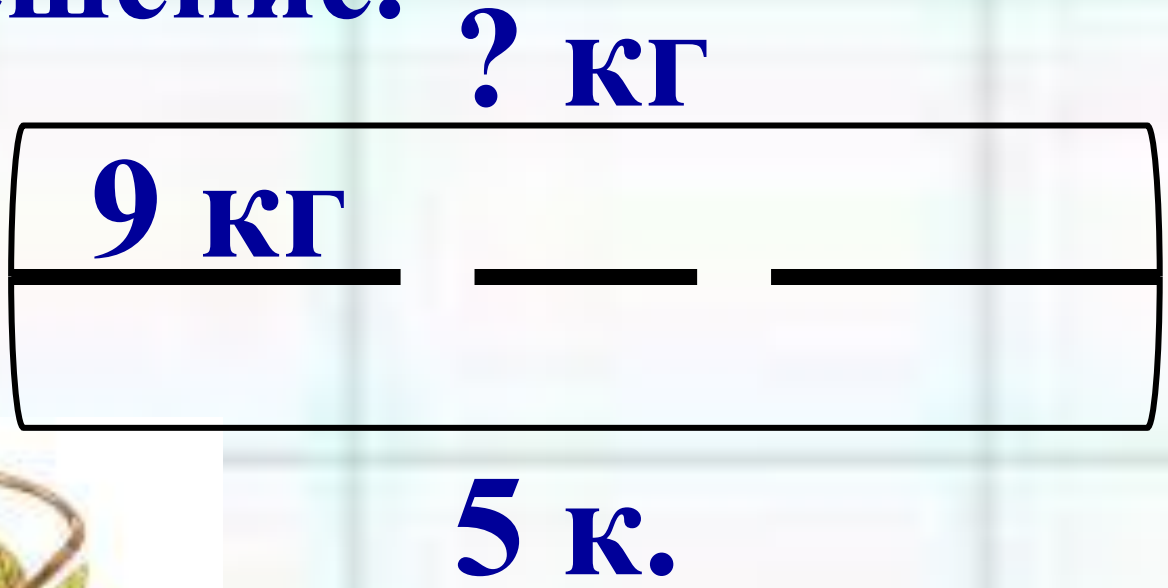

45 кг

9 кг

? к.

45 кг

5 к.

Самостоятельная работа

1 вариант	2 вариант
В магазин привезли 6 ящиков яблок, по 9 кг в каждом. Сколько килограммов яблок привезли в магазин?	В магазин привезли 3 ящика груш, по 7 кг в каждом. Сколько килограммов груш привезли в магазин?

1 вариант

? кг

9 кг

6 ящ.

$9 \cdot 6 = 54$ (кг)

2 вариант

? кг

7 кг

3 ящ.

$7 \cdot 3 = 21$ (кг)



В магазин привезли 6 ящиков яблок, по 9 кг в каждом, и 3 ящика груш, по 7 кг в каждом. Сколько всего килограммов фруктов привезли в магазин?

? кг 1)

9 кг ___ (·)

6 ящ.

? кг 2)

7 кг ___ (·)

3 ящ.

? кг

3) (+)

1) $9 \cdot 6 = 54$ (кг) – яблок

2) $7 \cdot 3 = 21$ (кг) – груш

3) $54 + 21 = 75$ (кг) – всего

Ответ: 75 кг фруктов привезли в магазин.

Физкультминутка

Раз, два, три, четыре, пять –
Все умеем мы считать.
Раз! Подняться, потянуться.
Два! Согнуться, разогнуться.
Три! В ладоши три хлопка,
Головою три кивка.
На четыре – руки шире.
Пять – руками помахать.
Шесть – за парту тихо сесть.

Зарядка для глаз

Лови снежинку











Закрепление

За один день фермер собрал 8 корзин огурцов, по 6 кг в каждой, и 3 корзины помидоров, по 5 кг в каждой. Сколько всего кг овощей собрал фермер в этот день?

$6 \cdot 8$

$6 \cdot 8 + 5 \cdot 3$

$5 \cdot 3$

$6 \cdot 8 - 5 \cdot 3$

Итог урока

- Что нового вы узнали сегодня на уроке?

Урок для меня прошёл с пользой.
Я научился решать составные задачи
и могу помочь другим.

Научился решать составные задачи, но мне ещё нужна помощь.

Мне было трудно на уроке.