1 класс. Математика

Знаки: «>» (больше), «<» (меньше), «=» (равно)

Разминка

- **Назови четыре различных цвета.**

Разминка

Кого Колобок встретил вторым?

Разминка

- Сколько дней в неделе?

Разминка

- **Какие цифры находятся рядом с цифрой 4?**



Разминка

- Как называется фигура, имеющая три угла?



2 ■ 3 = 5

5 ■ 1 = 4

3 + ■ = 5

4 ■ 2 = 2

5 − ■ = 4

1 + ■ = 4

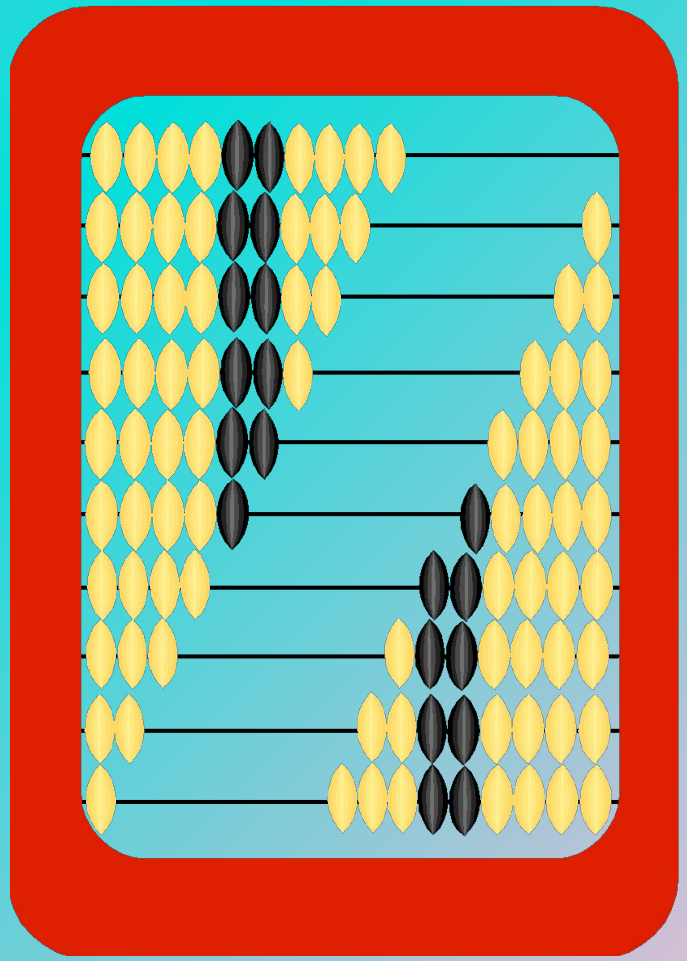










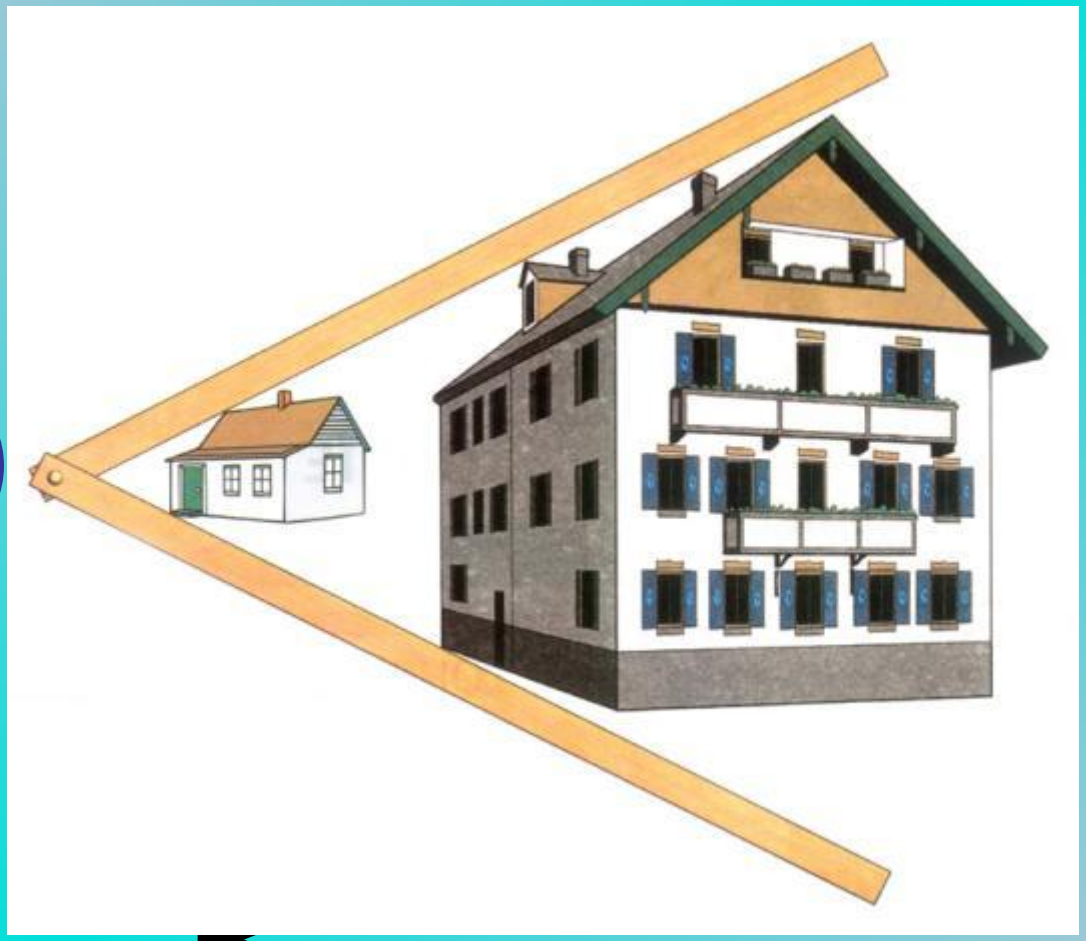

Знак « » - меньше







2 > 1

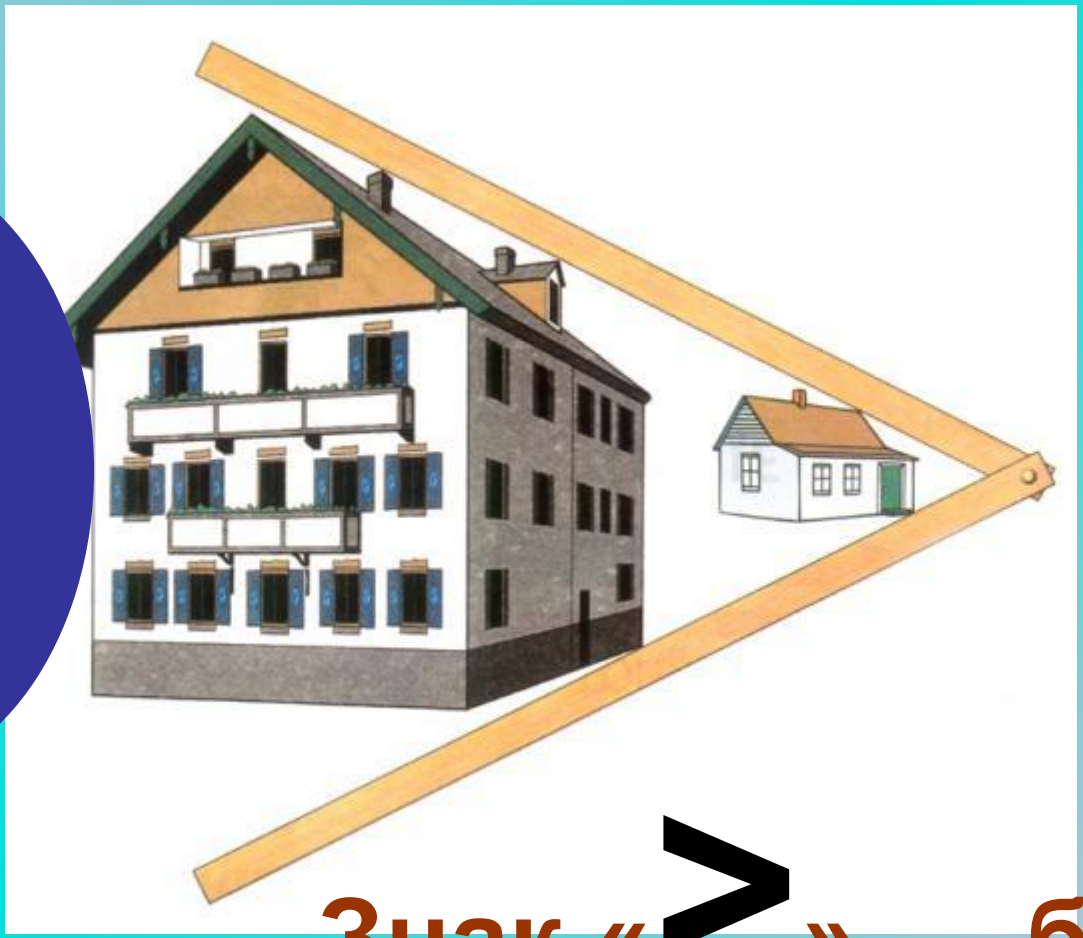

Знак «>» — больше.


3
4







> < =

Узнаем, какими знаками в математике обозначают слова: *больше, меньше, равно.*
Будем учиться использовать эти знаки в записях.

3 > 2
2 < 3

5 > 4
4 < 5

5 = 5

3 + 1 = 4
4 > 3

4 − 1 = 3
3 < 4



□ + □ = □
□ > □

□ − □ = □
□ < □

Рассмотри рисунок и определи, можно ли из всех этих отдельных колец собрать обе пирамидки.

Расскажи по таблице, как можно получить число 5.



4 + 1 = 5
1 + 4 = 5
3 + 2 = 5
2 + 3 = 5

Сколько жёлтых полосок нужно положить одну за другой, чтобы они полностью накрыли всю розовую полоску? А сколько зелёных? Получили разные ответы. Объясни почему.

Прочитай записи.

3 < 4
5 > 2

2 > 1
2 < 3

4 < 5
5 = 5

КАК НАБРАТЬ МОНЕТАМИ 5 Р.?


2
4
5
3
5
5
3 > 2
2 < 3
5 > 4
4 < 5
5 = 5



Физкультминутка.

- Солнце глянуло в кроватку...
- Раз, два, три, четыре, пять.
- Все мы делаем зарядку,
- Надо нам присесть и встать.
- Руки вытянуть пошире,
- Раз, два, три, четыре, пять.
- Наклониться - три, четыре,
- И на месте поскакать.
- На носок, потом на пятку.
- Все мы делаем зарядку.



$3 + 1 = 4$

$3 < 4$



$4 - 1 = 3$

$4 > 3$


4 + 1 = 5
1 + 4 = 5
3 + 2 = 5
2 + 3 = 5

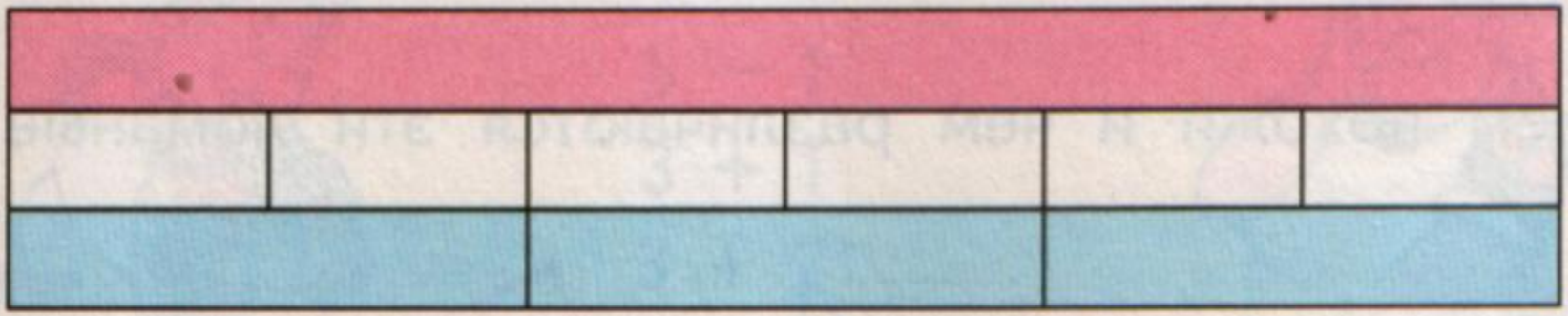

Сколько белых полосок нужно положить одну за другой, чтобы они полностью накрыли всю красную полоску? А сколько синих?

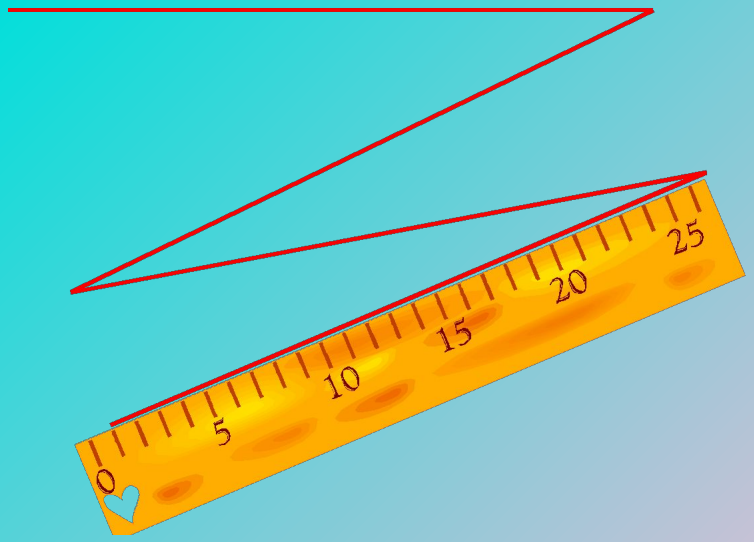

Расскажи по таблице, как можно получить число 5.



Сколько жёлтых полосок нужно положить одну за другой, чтобы они полностью накрыли всю розовую полоску? А сколько зелёных? Получили разные ответы. Объясни почему.

Прочитай записи.

$3 < 4$	$2 > 1$	$4 < 5$
$5 > 2$	$2 < 3$	$5 = 5$

КАК НАБРАТЬ МОНЕТАМИ 5 Р.?

Стр. 47

1
РУБЛЬ
1
РУБЛЬ
1
РУБЛЬ
1
РУБЛЬ
1
РУБЛЬ

2
РУБЛЯ
2
РУБЛЯ


5

Разминка для глаз

ФГОС

ШКОЛА РОССИИ

М. И. Моро С. И. Волкова

Математика

Рабочая тетрадь

Часть 1

1

ПРОСВЕЩЕНИЕ
издательство

Знаки > < =

- Какое время показывают часы? Запиши нужную цифру.



-

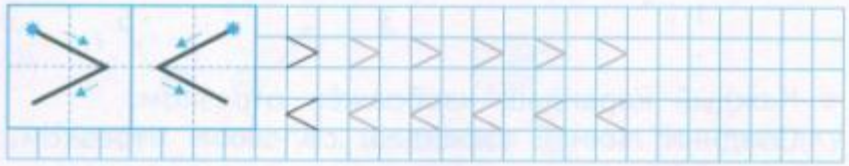

- Сколько на рисунке зелёных мячей? ☐
  Сколько розовых мячей? ☐

Каких мячей больше: зелёных или розовых?
Заполни пропуски.
Больше _____ мячей, чем _____.
Запиши это с помощью цифр и знаков >, <.

Каких мячей меньше: больших или маленьких?
Меньше _____ мячей, чем _____.
Запиши это с помощью цифр и знаков >, <.

Какое время показывают часы? Допиши нужные цифры.



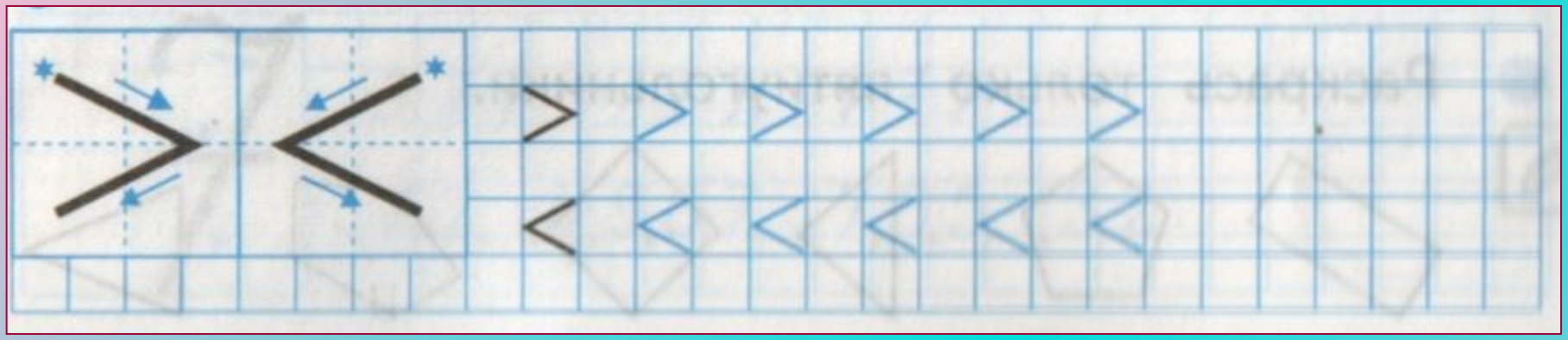




Спасибо за урок!